Mengenal Mata Uang

Bandingkan nilai pecahan uang berikut, kemudian berikan tanda < (lebih kecil dari) atau > (lebih besar dari) !









Sumber Gambar: https://www.bi.go.id/

©2022 LembarKerja.Com
For more worksheets, please visit: https://lembarkerja.com/

LembarKerja.com
Bringing The Learning Resources to Your Hand

Mengenal Mata Uang

Urutkanlah nilai pecahan uang berikut ini

Urutan nilai pecahan uang dari yang **terbesar** adalah ...

Urutan nilai pecahan uang dari yang **terkecil** adalah ...

Urutan nilai pecahan uang dari yang **terkecil** adalah ...

Urutan nilai pecahan uang dari yang **terbesar** adalah ...

Sumber Gambar: https://www.bi.go.id/

©2022 LembarKerja.Com
For more worksheets, please visit: https://lembarkerja.com/

LembarKerja.com
Bringing The Learning Resources to Your Hand